Фамилия, имя: _____ **Группа:** _____

Вариант: 1 **Дата:** 8 декабря 2010 г.

Тема: [13] алгоритм Дейкстры

Покажите работу алгоритма Дейкстры (заполнение массива `D[]`) на данном графе, приняв вершину №1 за начальную:

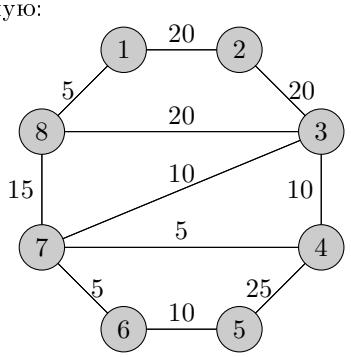

Шаг №	Тек. вер.	Расстояние до вершины №							
		1	2	3	4	5	6	7	8
1									
2									
3									
4									
5									
6									
7									
8									

Фамилия, имя: _____ **Группа:** _____

Вариант: 2 **Дата:** 8 декабря 2010 г.

Тема: [13] алгоритм Дейкстры

Покажите работу алгоритма Дейкстры (заполнение массива `D[]`) на данном графе, приняв вершину №1 за начальную:

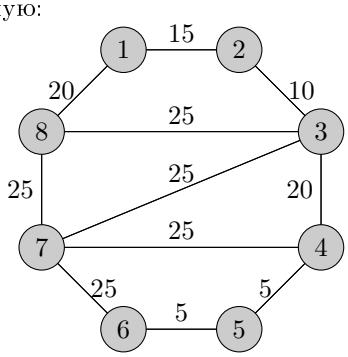

Шаг №	Тек. вер.	Расстояние до вершины №							
		1	2	3	4	5	6	7	8
1									
2									
3									
4									
5									
6									
7									
8									

Фамилия, имя: _____ **Группа:** _____

Вариант: 3 **Дата:** 8 декабря 2010 г.

Тема: [13] алгоритм Дейкстры

Покажите работу алгоритма Дейкстры (заполнение массива `D[]`) на данном графе, приняв вершину №1 за начальную:

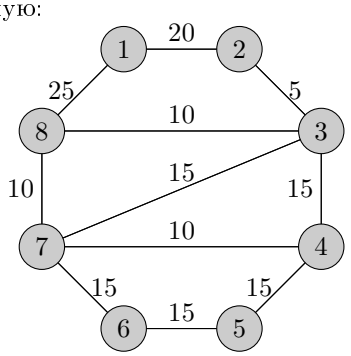

Шаг №	Тек. вер.	Расстояние до вершины №							
		1	2	3	4	5	6	7	8
1									
2									
3									
4									
5									
6									
7									
8									

Фамилия, имя: _____ **Группа:** _____

Вариант: 4 **Дата:** 8 декабря 2010 г.

Тема: [13] алгоритм Дейкстры

Покажите работу алгоритма Дейкстры (заполнение массива `D[]`) на данном графе, приняв вершину №1 за начальную:

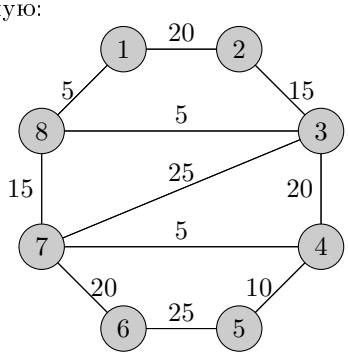

Шаг №	Тек. вер.	Расстояние до вершины №							
		1	2	3	4	5	6	7	8
1									
2									
3									
4									
5									
6									
7									
8									